Ik kan de inhoud uitrekenen

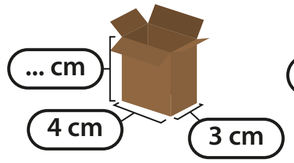

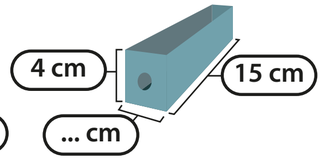

a De inhoud van deze doos is 60 cm³. Wat is de hoogte?

b De inhoud van deze doos is 180 cm³. Wat is de breedte?

Ik kan de ontbrekende maat uitrekenen

De inhoud van deze doos is 150cm³.
Wat is de breedte?

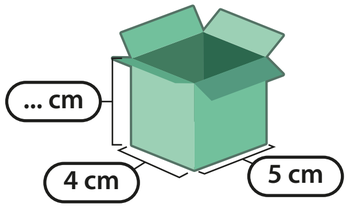

De inhoud van deze doos is 80cm³.
Wat is de hoogte?

Boek 8a blok 2: inkopen doen

Ik kan eerst gelijknamige breuken maken en dan optellen of aftrekken

$\frac{1}{4} + \frac{3}{8} =$ $\frac{7}{8} - \frac{3}{4} =$

$\frac{2}{5} + \frac{3}{10} =$ $\frac{5}{6} - \frac{1}{3} =$

$\frac{1}{6} + \frac{5}{12} =$ $\frac{9}{10} - \frac{3}{5} =$

$\frac{2}{3} + \frac{1}{5} =$ $\frac{3}{4} - \frac{2}{3} =$

$\frac{1}{3} + \frac{5}{8} =$ $\frac{4}{5} - \frac{1}{2} =$

Ik kan een grafiek aflezen en voorspellingen doen

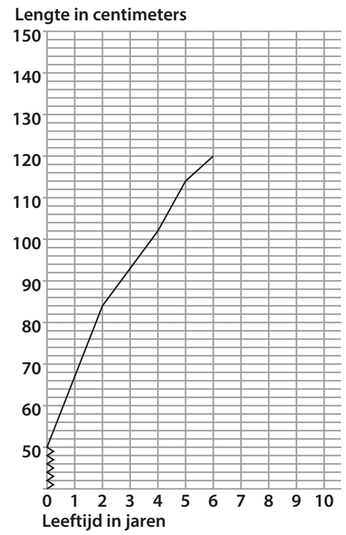

a Hoe lang was Lobke bij haar geboorte?
b Lobke is 6 jaar. Hoe lang is ze nu?
c Hoeveel is Lobke vanaf haar geboorte gegroeid?
d Hoeveel is Lobke van haar geboorte tot haar eerste verjaardag gegroeid?
e Hoeveel is Lobke tussen haar derde en vierde verjaardag gegroeid?
f In welk jaar is Lobke het meest gegroeid?
g In welk jaar is Lobke het minst gegroeid?

Ik kan verkort cijferend vermenigvuldigen

8 5
2 4 x

6 4
2 2 x

Ik kan het tijdstip uitrekenen

11:55
a 20 minuten vroeger
3 kwartier later

20:10
b 1½ uur vroeger
4 uur later

17:35
c 3 kwartier vroeger
20 minuten later

Ik kan cijferend delen en direct een grote 'hap' nemen

789 : 16 =

..... x

..... x

8730 : 70 =

..... x

..... x